DÜNYA, GÜNEŞ VE AY

1. 6. sınıf öğrencileri sınıfta şekilde verilen modeli oluşturuyorlar.

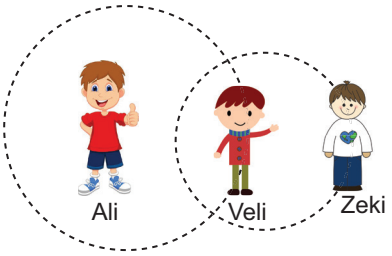

Bu modele göre Ali, Veli ve Zeki'nin karşılık geldiği gök cisimleri aşağıdakilerden hangisidir?

	Ali	Veli	Zeki
A)	Dünya	Güneş	Ay
B)	Ay	Güneş	Dünya
C)	Güneş	Dünya	Ay
D)	Güneş	Ay	Dünya

2. Bir öğrenci pilates topu, hentbol topu ve mercimek ile Dünya, Güneş ve Ay modeli yapmak istiyor.

Elindeki malzemelerle gök cisimlerinin eşleştirmesi aşağıdakilerden hangisi gibi olur?

	Dünya	Güneş	Ay
A)	Hentbol Topu	Pilates topu	Mercimek
B)	Pilates topu	Hentbol Topu	Mercimek
C)	Mercimek	Hentbol Topu	Pilates topu
D)	Hentbol Topu	Mercimek	Pilates topu

3. **Hava Küre'nin görevleri ile ilgili,**

1. Canlıların yaşaması için gerekli gazları bulundurur.
2. Dünya'yı Güneş'in zararlı ışınlarından korur.
3. Dünya'nın yaşam için uygun sıcaklıkta kalmasını sağlar.

ifadelerinden hangileri söylenebilir?

A) 1 ve 2.
B) 1 ve 3.
C) 2 ve 3.
D) 1, 2 ve 3.

4. Aşağıda Dünya'nın katmanları ile ilgili bir şema verilmiştir.

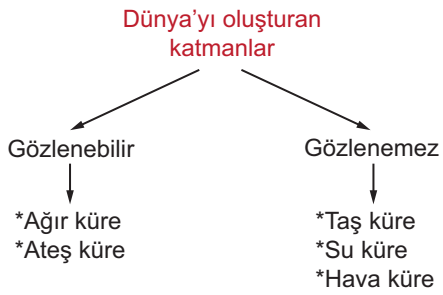

Bu şemanın doğru olabilmesi için hangi değişiklik yapılmalıdır?

A) Su küre ile ateş küre yer değiştirmelidir.
B) Taş küre ile ağır küre yer değiştirmelidir.
C) Hava küre gözlenebilir katmanlara eklenmelidir.
D) Gözlenebilir katmanlar ile gözlenemez katmanlar yer değiştirmelidir.

5.

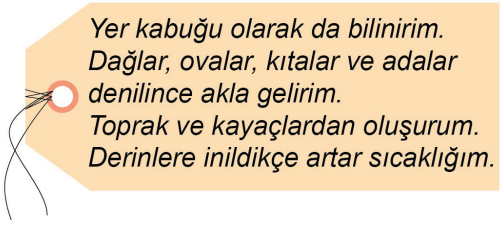

Yukarıda Dünya'nın katmanlarından biri ile ilgili yazılan şiir hangi katmanı anlatmaktadır?

A) Taş küre
B) Hava küre
C) Su küre
D) Ağır küre

6. Dünya'dan bakıldığında Ay'ın daima aynı yüzünü görürüz.

Aşağıdakilerden hangisi Ay'ın daima aynı yüzünü görmemizin nedenini açıklar?

A) Güneş'in uyguladığı çekim kuvveti
B) Ay ve Dünya'nın aynı süratle dönmesi
C) Ay ve Dünya'nın şeklinin benzer olması
D) Ay'ın kendi ekseni ve Dünya etrafındaki dönme süresinin aynı olması

MEB 2016 - 2017 • Ölçme, Değerlendirme ve Sınav Hizmetleri Genel Müdürlüğü • http : / / odsgm. meb. gov. tr/ kurslar

DÜNYA, GÜNEŞ VE AY

7. Aşağıda Ay'ın evrelerini ve özelliklerini gösteren bir şema verilmiştir.

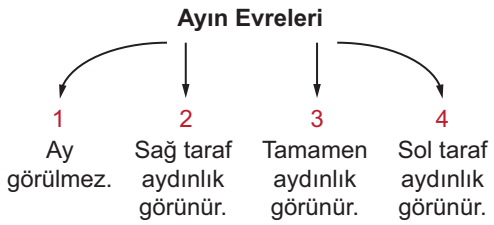

Bu şemada 1, 2, 3 ve 4 ile gösterilen kısımlara hangi evreler yazılmalıdır?

	1	2	3	4
A)	Yeni ay	İlk dördün	Dolunay	Son dördün
B)	Hilal	İlk dördün	Yeni ay	Son dördün
C)	Dolunay	Son dördün	Hilal	İlk dördün
D)	Son dördün	Hilal	Dolunay	Yeni ay

8. **Su küre ile ilgili poster hazırlamak isteyen bir öğrenci,**

1. Yer altı ve yer üstü sularından oluşur.
2. Pek çok canlının yaşaması için ortam sağlar.
3. Derinlere inildikçe sıcaklık artar.

ifadelerinden hangilerini kullanabilir?

A) 1 ve 2.
B) 2 ve 3.
C) 1 ve 3.
D) 1, 2 ve 3.

9.

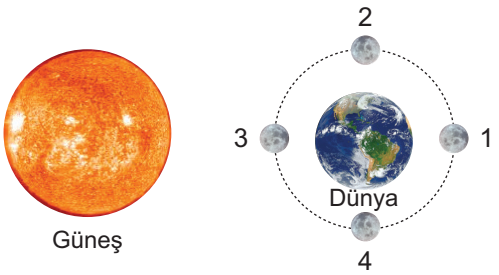

Dünya'dan "Yeni Ay" evresinin gözlenebilmesi için Ay'ın 1, 2, 3 ve 4 ile belirtilen konumlardan hangisinde olması gerekir?

A) 1
B) 2
C) 3
D) 4

10.

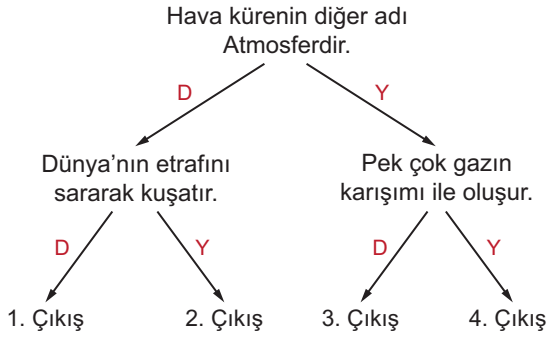

Yukarıda verilen şemadaki ifadeler doğru ise "D" yanlış ise "Y" okunu takip eden bir öğrenci hangi çıkışa ulaşır?

A) 1. Çıkış
B) 2. Çıkış
C) 3. Çıkış
D) 4. Çıkış

11. Yer kabuğunun - - (1) - - bulunan katman ateş küredir. Bu katman çok sıcak olup demir, magnezyum ve kalsiyum içerir. Bu maddeler - - (2) - - oluşturur. Bazı durumlarda bu madde yeryüzüne çıkarak - - (3) - - patlamasını oluşturur.

Yukarıda verilen katman ile ilgili bilgilerde 1, 2, 3 ile gösterilen boşluklara hangi ifadeler yazılmalıdır?

	1	2	3
A)	altında	magmayı	volkan
B)	üstünde	lavları	yanardağ
C)	altında	lavları	tsunami
D)	üstünde	magmayı	med cezir

12. **Dolunay evresinden yedi gün sonra gözlenen evre hangi evredir?**

A) Hilal
B) Yeni ay
C) İlk dördün
D) Son dördün

MEB 2016 - 2017 • Ölçme, Değerlendirme ve Sınav Hizmetleri Genel Müdürlüğü • http : / / odsgm. meb. gov. tr/ kurslar

KAZANIM KAVRAMA TESTİ
ÖLÇME, DEĞERLENDİRME VE SINAV HİZMETLERİ GENEL MÜDÜRLÜĞÜ

Adı :.....
Soyadı :.....
Sınıf :.....
No :.....

1	2	3	4	5	6	7	8	9	10	11	12
A	A	A	A	A	A	A	A	A	A	A	A
B	B	B	B	B	B	B	B	B	B	B	B
C	C	C	C	C	C	C	C	C	C	C	C
D	D	D	D	D	D	D	D	D	D	D	D
E	E	E	E	E	E	E	E	E	E	E	E

Doğru :.....
Yanlış :.....
Boş :.....
Puan :.....